2．下の(1)～(3)のことがらを調べるのに、つぎの㋐～㋕のどのグラフや地図を使えばよいですか。あてはまるものを一つずつえらび、その記号を書きなさい。

(1) 農地のしめる割合は、10年前とくらべてどうなったか。 (1) ㉙

(2) どんなやさいが多くつくられるようになったか。 (2) ㉚

(3) 畑や牧場は、どのくらいの高さのところに広がっているか。 (3) ㉛

㋐ 地形のようす

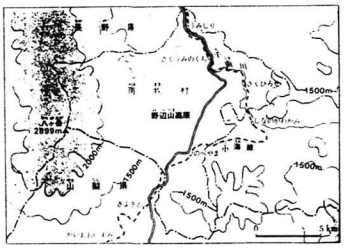

㋑ やさいの作つけ面積のうつりかわり



㋒ 土地利用のわりあい

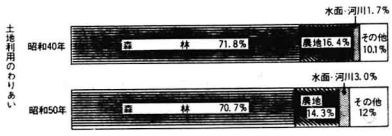

㋓ 土地利用のようす

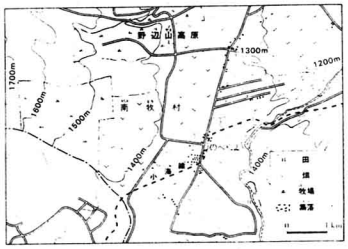

㋔ 土地利用

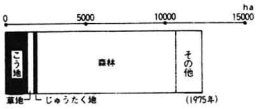

㋕ やさい作りの期間

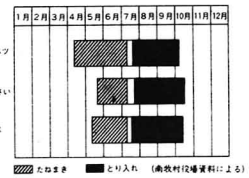

3．つぎの文の説明にあてはまるグラフを、下の [ ] の中から一つずつえらび、その記号を書きなさい。

(1) 一年中あたたかく、雨もよくふります。パパイア・そてつなど、熱帯の植物がどこにでもしげっています。 (1) ㉜

(2) どの家でも、ガラス窓を二重にし、10月のなかごろには、ストーブをたきはじめます。3月になっても、気温がれいかに下がる日があります。 (2) ㉝

(3) 冬になると、毎日のように雪がふりつづき、山ぞいでは3メートルいじょうつもるところがあります。 (3) ㉞

(4) 冬でもわりあいあたたかく、野菜の早作りをしています。雨も多く、台風もたびたびやってきます。 (4) ㉟

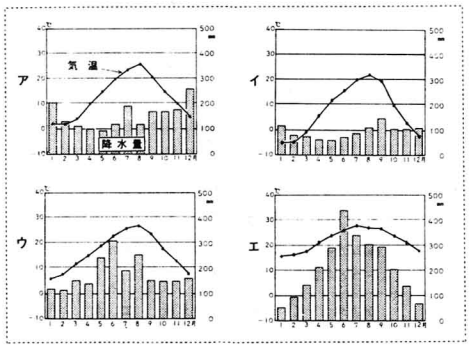

3

1．つぎの文を読んで、正しいものを三つえらび、その記号を書きなさい。

ア．公園をつくるばあいは、かならずそこに住む人びとのとうひょうできめることになっています。

イ．市（町・村）では、たくさんお金がかかる大きな仕事は、年ごとの計画をたててすすめています。

ウ．公民館では、収入をふやすために、品物を売ったり、えいが会を開いたりしています。

エ．大きな公園をつくるには、たくさんの費用がかかるので、市（町・村）では、県や国からも費用の一部を出してもらうことがあります。

オ．市の人びとの生活に便利なデパートをつくる時には、市が計画をたて、市議会で話し合い、予算をきめてたてます。

カ．市（町・村）では、青年学級を開いたり、市（町・村）の人びとの集まりなどに利用できるように、公民館をつくります。

1 [ ] 36 [ ] 37 [ ] 38